QUINTO COMPENSATORIA

SEMANA 15 JUNIO (FINAL)

Hola chicos de quinto. Vamos a ver qué hay de LENGUA en vuestro curso...

Mirad, ya os ha puesto Meli el truco para encontrar o crear un C. Indirecto, así que lo tenéis chupado.

3 Completa estas oraciones con un complemento indirecto:

- El joyero entregó el collar …
- El escritor regaló un libro …
- La profesora corrigió los cuadernos …
- La actriz firmó un autógrafo …
- La poetisa dedicó su obra …

Con que terminéis las oraciones con algo que esté introducido con "a" o "para", os salfrá un C. Indirecto.
Por ejemplo:

El joyero entregó el collar.... a la señora.

Pues así con todas.

El otro ejercicio está claro, porque ya vuestra profe os ha puesto el ejemplo. Así que vamos con...

MATEMÁTICAS

Estáis con la probabilidad, y tenéis que ponerlo en forma de fracción según os ha dicho la profe:

Siempre habrá que expresarlo en forma de fracción: ***en el numerador los casos que pueden ser y en el denominador todos.***

1 Al tirar un dado:

a) ¿Cuál es la probabilidad de sacar un número impar?

b) ¿Cuál es la probabilidad de sacar un número mayor que 3?

Si solo puede salir en un dado 1, 2, 3, 4, 5, 6 los números impares son 1, 3, 5 es decir, 3 casos de 6 posibles: 3/6

Piensa igual para el caso b)

2 Ana tiene una baraja española. Saca una carta, al azar, del mazo.

a) ¿Cuál es la probabilidad de que saque un oro?

b) ¿Y de que saque un rey de oros? ¿Y de que saque un rey?

La baraja española tiene 40 cartas. Esto debes saberlo. Tiene 4 palos y cada palo tiene 10 cartas, es decir, hay 10 cartas de oros, 10 de copas, 10 de espadas y 10 de bastos.
En cada baraja hay 4 reyes, 4 caballos, 4 sotas.

a) 10 oros / 40 cartas, la fracción es 10/40 Si sabes reducirla: ¼

Intenta tú el b)

3 En una urna hay 3 bolas verdes, 2 rojas y 4 azules. Calcula la probabilidad de que, al sacar una bola, esta sea roja.

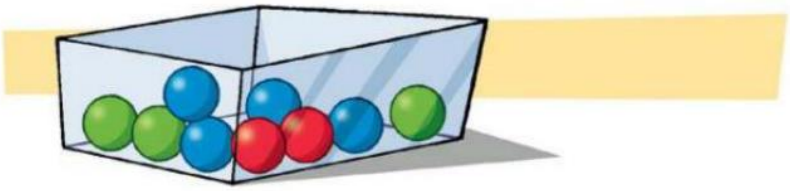

No te ayudo. Está chupado.

El desafío:

1 Observa y elabora, a partir de los datos que da Hugo, una tabla de frecuencias.

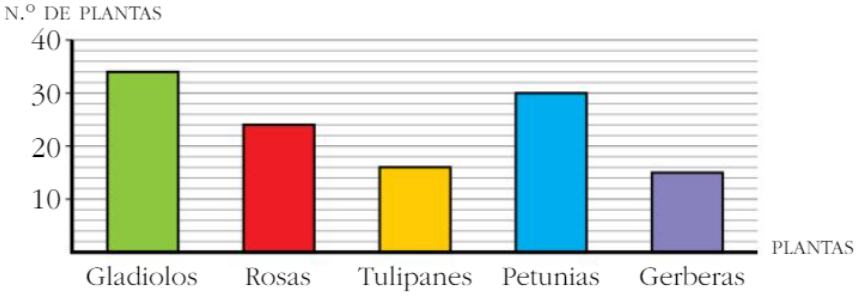

2 Si el lunes venden 20 rosas; el martes, 10 y el miércoles, 45, ¿cuál es la media de rosas vendidas en esos tres días?

Recuerda que la media se hacía sumando los datos y dividiendo entre el número de sumandos:
(20 + 10 + 45) : 3

3 ¿Qué día vendieron rosas por encima de la media?

Tras resolver la operación del ejercicio dos, ya sabrás si fue el lunes, el martes o el miércoles.

4 ¿Qué probabilidad hay de vender un tulipán?

Si miras el gráfico, ya verás cuántos tulipanes hay. Tendrás que poner la fracción de los tulipanes que hay partido por el número de flores total de la tienda.

5 En el vivero hay 15 petunias rosas, 5 amarillas y el resto moradas. ¿Qué probabilidad hay de que vendan todas las de color amarillo?

Parecido. las amarillas son 5, pero tienes que saber el total de petunias y hacer la fracción.

6 Hugo ha colocado en una jardinera 70 plantas de tomates, 18 de pimientos y 7 de calabacines. ¿Cuál de los siguientes diagramas corresponde a esos datos?

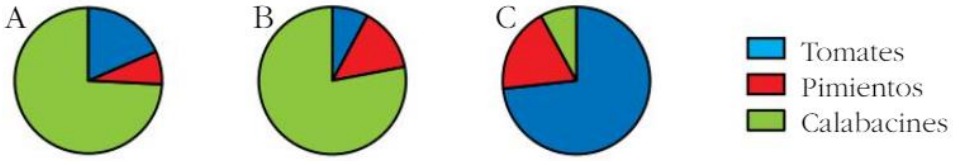

Si de lo que más hay es de tomates y ves que los tomates están representados de color azul... no hay más que ver los círculos para saberlo.

NADA MÁS CHICOS, NOS VEMOS EN SEPTIEMBRE...
¡¡¡QUE TENGÁIS UN BUEN VERANO!!!