SEGUNDO COMPENSATORIA

SEMANA 15 JUNIO (FINAL)

Hola chicos y chicas míos de compensatoria. Como Juncal os ha puesto ya la tarea de **LENGUA** medio resulta para que no sufráis mucho, no os puedo ayudar yo más. Vamos a ver entonces

MATEMÁTICAS

También os ha ayudado mucho con las explicaciones la profe, así que solo me voy a fijar en las más difíciles por si acaso...

ACTIVIDADES DE REPASO

1 Escribe los números.

- 2 C + 9 D + 3 U = ☐ ▶ ☐
- 8 C + 7 D = ☐ ▶ ☐
- 6 C + 5 U = ☐ ▶ ☐

2 Suma, resta y multiplica.

698 + 235 752 − 419 123 × 3

5 × 7 = ☐

7 × 9 = ☐

8 × 6 = ☐

hasta aquí, sin problema

3 Dibuja el reparto y completa.

Reparte en partes iguales 15 palitos en 3 bolsas. ¿Cuántos palitos hay en cada bolsa?

☐ ○ ☐ = ☐ ▶ Hay

Bueno, repartir es dividir, así que 15 : 3 = ...

4 **Completa y calcula.**

Para calcular el doble de un número

multiplica el número

- El doble de 5 es
- El doble de 9 es

Para calcular la mitad de un número

el número

- La mitad de 8 es
- La mitad de 12 es

El doble se halla multiplicando por 2
La mitad se halla dividiendo entre 2

5 EN TU CUADERNO. **Copia cada figura y escribe debajo su nombre.**

Polígonos

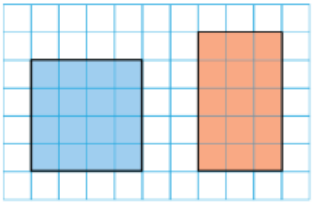

Cuerpos geométricos

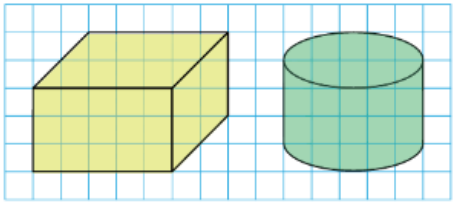

6 **Piensa y escribe si es verdadero o falso.**

- Todos los cubos son prismas. ▶
- Todos los prismas son cubos. ▶

Chupado, poner el nombre. Y en el 6, hay una oración verdadera y otra falsa.

7 **Lee y resuelve.**

En mayo, Quique hizo 28 empanadas de atún y 15 de carne.
En junio, hizo el doble de empanadas que en mayo.

- ¿Cuántas empanadas hizo en junio?

1.º 2.º

En junio hizo

- ¿Cuántas empanadas hizo en total los dos meses?

En total hizo

Primero calcula cuántas hizo en mayo, 28 y 15
Después calcula el doble de esa cantidad... recuerda, x 2

HORAS EN PUNTO Y HORAS Y MEDIA

1 **Escribe qué hora marca cada reloj.**

Las 5

11:00

Las 2 y media

8:30

Chupado... si la aguja larga está arriba son "en punto". Si está abajo, son "y media"

2 Colorea cada dibujo para que al doblar la figura por la línea roja las dos partes coincidan.

Izquierda y derecha



Arriba y abajo

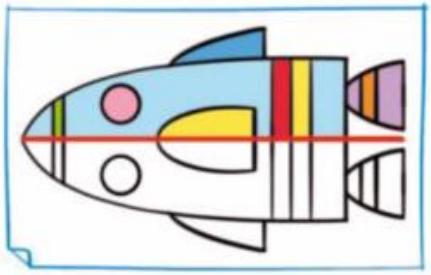

O sea, coloréalo igual, igual que si lo vieras en un espejo.

PROBABILIDAD

3 RAZONAMIENTO. **Imagina los resultados del dado y completa.**

Sergio juega a tirar el dado.

Siempre
A veces
Nunca

- ¿Sacará un 4? _____
- ¿Sacará un número? _____
- ¿Sacará una letra? _____

1 Relaciona los relojes que marcan la misma hora.

Chupado, tú solo

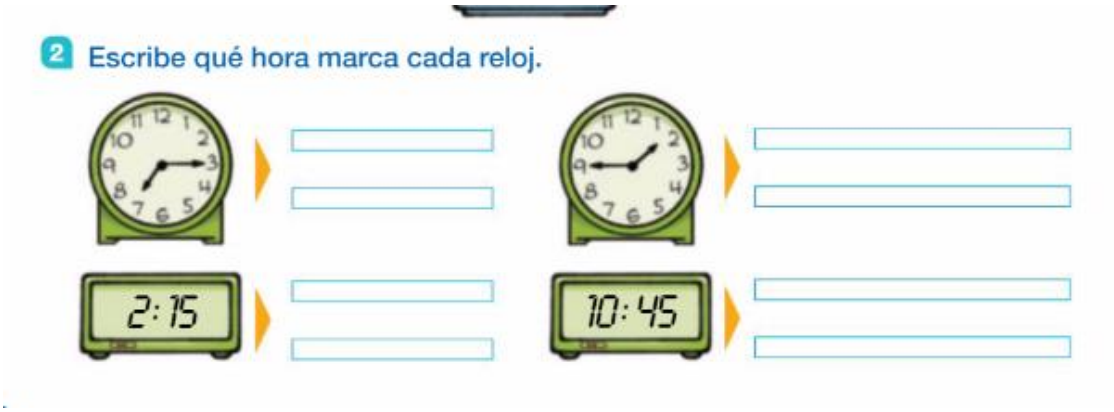

Te las digo un poco descolocadillas y tú las pones en su sitio...

Las once menos cuarto

Las dos y cuarto

Las siete y cuarto

Las dos menos cuarto.

Te ayudo con el reloj amarillo, que es el más difícil.

Y te digo las demás un poco: Rojo: 8:00 Azul: 2:30 Verde: 9:15
Intenta tú las agujas.

Mueve la aguja de las horas para ponerla en las 12. Resta 9- 2 = 7:45

Empezó a las 5:15 y si sumamos 30 minutos entonces acabó a las 5: 45. Intenta tú con las agujas...

ESO ES TODO. QUE PASES UN BUEN VERANO Y... ¡¡¡NOS VEMOS EN SEPTIEMBRE!!!