SEMANA 8-12 DE JUNIO

3º PRIMARIA

MATEMÁTICAS:

Página 190 ejer 1,2,3

EL RELOJ DIGITAL

Con el **sistema de 24 horas** la hora dice cuántas horas y minutos han pasado desde medianoche.

Un día tiene 24 horas. Las **doce de la noche** son las 00:00 hasta las 12:00 del mediodía (hora del recreo) han pasado 12 horas, a partir de ahí, la una del mediodía son las 13h, las dos del mediodía son las 14 h…

A.M. : Horas antes del mediodía. (de la mañana)

P.M. : Horas después del mediodía. (de la tarde)



HORAS, MINUTOS, SEGUNDOS

RECUERDA:

1 día	24 horas
1 hora	60 minutos
Tres cuartos de hora	45 minutos
Media hora	30 minutos
Un cuarto de hora	15 minutos
1 minuto	60 segundos

PÁG 192 EJER 1,2

PÁG 196 EJER 4,7,8

RECTAS Y ÁNGULOS (nuevo contenido)

Copia en tú cuaderno:

Segmento: es la parte de una recta, que tiene principio y fin

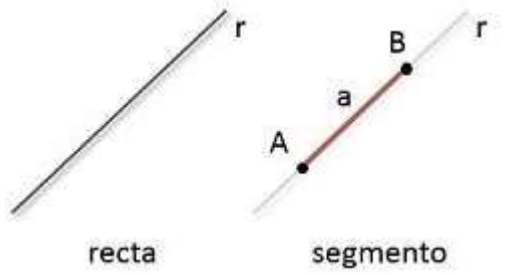

Rectas paralelas: por mucho que se prolonguen **NUNCA** se llegan a unir en un punto.



Rectas secantes: se cortan en un punto.

Ángulo: es el espacio comprendido entre dos rectas secantes. Por lo tanto, un ángulo tiene dos lados. El punto donde se cortan las rectas se llama **VÉRTICE**

PÁG. 204 EJER 1,2

Ficha **5**

Operaciones

Nombre _____ Fecha _____

- **Resuelve.**

7050 − 899	4295 + 3102 + 1879	2956 + 3971 + 1239	6227 − 582
7321 + 970 + 403	5324 − 3421	2153 + 515 + 109	6323 − 346

- **Coloca y suma.**

7.960 + 367 + 28	495 + 1.672 + 54	5.598 + 627 + 3

- **Coloca y resta.**

77.549 − 14.504	40.917 − 17.963	33.740 − 29.962

- **Calcula.**

8.216 → Suma 987 → [ ] → Resta 749 → [ ] → Suma 1.510 → [ ] → Resta 892 → [ ]

© 2008 Santillana Educación, S. L.

Ficha
6

Problemas

Nombre _____ Fecha _____

Susana ha recibido en su tienda 12 bolsos como estos. ¿Cuánto tiene que pagar al proveedor por los 12 bolsos?

1. Comprende.

Pregunta: _____

_____

Datos: _____

_____

2. Piensa qué hay que hacer.

- ☐ una resta.
- ☐ una multiplicación.
- ☐ una suma.

3. Calcula.

Respuesta:

_____

En cada planta de un edificio trabajan 289 personas. Si el edificio tiene 24 plantas, ¿cuántas personas trabajan en el edificio?

1. Comprende.

Pregunta: _____

_____

Datos: _____

_____

2. Piensa qué hay que hacer.

- ☐ una resta.
- ☐ una suma y una resta.
- ☐ una multiplicación.

3. Calcula.

Respuesta:

_____

© 2008 Santillana Educación, S. L.

Ficha
8

Problemas

Nombre _____ Fecha _____

Para el desfile de carnaval se repartieron en partes iguales 252 bolsas de confeti entre las 6 clases de Primaria. ¿Cuántas bolsas de confeti recibió cada clase?

1. Comprende.

Pregunta: _____

_____

Datos: _____

_____

2. Piensa qué hay que hacer.

- ☐ una suma.
- ☐ una división.
- ☐ una suma y una división.

3. Calcula.

Respuesta:

_____

Hay que cargar todos estos paquetes en partes iguales en 4 camiones. ¿Cuántos paquetes se cargarán en cada camión?

1. Comprende.

Pregunta: _____

_____

Datos: _____

_____

2. Piensa qué hay que hacer.

- ☐ una suma.
- ☐ una resta.
- ☐ una división.

3. Calcula.

Respuesta:

_____

© 2008 Santillana Educación, S. L.